Secretaria Regional de Educação
Direção Regional de Educação

Projeto de Enriquecimento e Complemento Curricular
Plano Regional de Educação Rodoviária (**PRER**) 2018/2019
Projeto I - **Taça Escolar de Educação Rodoviária** - 12ª Edição

Categoria A – **1º Ciclo do Ensino Básico – Fase Concelhia**

QUESTIONÁRIO (escrito)

1234

A PREENCHER PELO PARTICIPANTE (EM MAIÚSCULAS)

Estabelecimento de Ensino: _____

Nome do Aluno: _____

Ano de escolaridade: _____º Turma: _____ N.º _____

Data de nascimento: _____/_____/_____ Data de realização do questionário: 2019/__/__

ATENÇÃO: Para cada afirmação/pergunta, apenas existe uma opção de resposta correta. Faz uma circunferência (O) em torno dessa mesma resposta.

Número das questões	Questões	Penalizações parciais (10 pontos por cada resposta errada)
1	No fim de uma viagem, os passageiros de automóveis devem libertar-se imediatamente do cinto de segurança, mesmo quando os veículos ainda estão em andamento. **A – Verdadeiro** **B – Falso**	
2	O ciclista **A** está a comportar-se corretamente, ao circular numa via de dois sentidos?  **A - Não, porque como vai virar à esquerda deveria estar o mais próximo possível da berma.** **B - Sim, porque ao mudar de direção à esquerda deve-se colocar junto ao eixo da faixa de rodagem.**	
3	Os bebés, transportados em automóveis, estão mais seguros se forem ao colo de outra pessoa. **A – Verdadeiro** **B – Falso**	
4	O ciclista A deve: **A – Avançar antes dos veículos que entram na rotunda.** **B – Avançar depois do automóvel e antes do ciclista B**	
5	Dois ciclistas podem circular a par. **A – Verdadeiro** **B- Falso**	

Número das questões	Questões	Penalizações parciais (10 pontos por cada resposta errada)
6	A taxa de alcoolemia é a quantidade de álcool que existe no sangue de uma pessoa num determinado momento. **A – Verdadeiro** **B – Falso**	
7	Os ciclistas não podem circular aos ziguezagues entre as filas de trânsito para chegar mais rápido. **A – Verdadeiro** **B – Falso**	
8	5 – Se circulares de bicicleta à noite, para veres e seres visto pelos outros utentes, deves ligar a luz da frente que é vermelha e a de trás que é branca. **A – Verdadeiro** **B – Falso**	
9	Os ciclistas podem falar ao telemóvel enquanto conduzem desde que uma das mãos se mantenha no guiador. **A – Verdadeiro** **B – Falso**	
10	Todos os sinais que se seguem são de cedência de passagem?  **A – Verdadeiro** **B – Falso**	
	Total de Penalizações	

Ficha de Avaliação da Prova de Maneabilidade

Comportamentos	N.º de faltas	Penalização por falta	TOTAIS PARCIAIS
Não respeitou o sinal de trânsito		5	
Não respeitou a regra de trânsito		5	
Não sinalizou a manobra		5	
Não passou em todas as zonas da prova		10	
		TOTAIS DE PENALIZAÇÃO	

Total de Penalizações no Questionário	
Total de Penalizações na Prova de Maneabilidade	
Somatório das Penalizações averbadas nas duas componentes do Projeto =	

Secretaria Regional de Educação
Direção Regional de Educação

Projeto de Enriquecimento e Complemento Curricular
Plano Regional de Educação Rodoviária (**PRER**) 2018/2019
Projeto I - **Taça Escolar de Educação Rodoviária** - 12ª Edição

Categoria A – **1º Ciclo do Ensino Básico – Fase Concelhia**

QUESTIONÁRIO (escrito)

2345

A PREENCHER PELO PARTICIPANTE (EM MAIÚSCULAS)

Estabelecimento de Ensino: _____

Nome do Aluno: _____

Ano de escolaridade: _____º Turma: _____ N.º _____

Data de nascimento: _____/_____/_____ Data de realização do questionário: 2019/__/__

ATENÇÃO: Para cada afirmação/pergunta, apenas existe uma opção de resposta correta. Faz uma circunferência (O) em torno dessa mesma resposta.

Número das questões	Questões	Penalizações parciais (10 pontos por cada resposta errada)
1	As crianças com menos de 12 anos de idade transportadas em automóveis equipados com cintos de segurança, desde que tenham altura inferior a 135 cm, devem ser seguras por sistema de retenção homologado e adaptado ao seu tamanho e peso. **A – Verdadeiro** **B – Falso**	
2	A capacidade de condução pode ser prejudicada pela ingestão de pequenas quantidades de álcool? **A – Verdadeiro** **B – Falso**	
3	Se circulares de bicicleta à noite, para veres e seres visto pelos outros utentes, deves ligar a luz da frente que é vermelha e a de trás que é branca. **A – Verdadeiro** **B – Falso**	
4	A distância que deve separar-nos do veículo da frente, deve ser suficiente para pararmos em segurança, se ele fizer uma travagem ou manobra brusca. 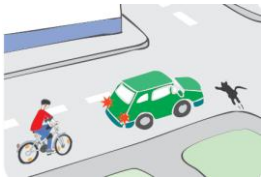 **A – Quanto mais depressa circularmos, maior tem de ser essa distância.** **B – Devemos circular sempre junto ao veículo da frente para termos uma melhor visibilidade do trânsito**.	
5	O cinto de segurança protege os condutores e passageiros, prevenindo possíveis consequências mais graves em caso de acidente (ex.: lesões permanentes; lesões fatais; morte imediata no local). **A – Verdadeiro** **B – Falso**	

Número das questões	Questões	Penalizações parciais (10 pontos por cada resposta errada)
6	Os bebés, transportados em automóveis, estão mais seguros se forem ao colo de outra pessoa. **A – Verdadeiro B – Falso**	
7	Muitas crianças usam transporte coletivo de passageiros, público ou escolar, para diariamente se deslocarem para a escola. Em que situação consideras que correm mais riscos? **A - O André aguarda que o transporte arranque antes de atravessar a estrada e só depois de olhar à esquerda, à direita e novamente à esquerda, sem correr e apenas quando não há veículos a circular é que atravessa a rua.** **B - O Pedro atravessa a estrada ainda com o autocarro na paragem e muitas vezes detém-se no eixo da via para deixar passar veículos em ultrapassagem ou que circulam em sentido contrário.**	
8	Em Portugal, as crianças até 1,35 metros e menos de 12 anos de idade têm de sentar-se num sistema de retenção adequado ao seu tamanho e peso. **A – Verdadeiro B – Falso**	
9	O ciclista A deve: **A – Avançar depois dos veículos que circulam na rotunda.** **B – Avançar depois do automóvel e antes do ciclista B.** 	
10	Dois ciclistas podem circular a par. **A – Verdadeiro B- Falso**	
	Total de Penalizações	

Ficha de Avaliação da Prova de Maneabilidade

Comportamentos	N.º de faltas	Penalização por falta	TOTAIS PARCIAIS
Não respeitou o sinal de trânsito		5	
Não respeitou a regra de trânsito		5	
Não sinalizou a manobra		5	
Não passou em todas as zonas da prova		10	
		TOTAIS DE PENALIZAÇÃO	

Total de Penalizações no Questionário	
Total de Penalizações na Prova de Maneabilidade	
Somatório das Penalizações averbadas nas duas componentes do Projeto =	

Secretaria Regional de Educação
Direção Regional de Educação

Projeto de Enriquecimento e Complemento Curriculo
Plano Regional de Educação Rodoviária (**PRER**) 2018/2019
Projeto I - **Taça Escolar de Educação Rodoviária** - 12ª Edição

Categoria A – **1º Ciclo do Ensino Básico – Fase Concelhia**

QUESTIONÁRIO (escrito)

3456

A PREENCHER PELO PARTICIPANTE (EM MAIÚSCULAS)

Estabelecimento de Ensino: _____

Nome do Aluno: _____

Ano de escolaridade: _____º Turma: _____ N.º _____

Data de nascimento: _____/_____/_____ Data de realização do questionário: 2019/__/__

ATENÇÃO: Para cada afirmação/pergunta, apenas existe uma opção de resposta correta. Faz uma circunferência (O) em torno dessa mesma resposta.

Número das questões	Questões	Penalizações parciais (10 pontos por cada resposta errada)
1	É proibido o transporte de pessoas em número que exceda a lotação do veículo ou de modo a comprometer a sua segurança ou a segurança da condução. **A – Verdadeiro** **B – Falso**	
2	Os peões devem transitar pela direita dos locais que lhes são destinados, ainda que transitem nas vias públicas em que esteja proibido o trânsito de veículos. **A – Verdadeiro** **B – Falso**	
3	O ciclista A deve: **A – Passar primeiro que os outros veículos.** **B – Deixar passar primeiro o automóvel e avançar antes do ciclista B.** 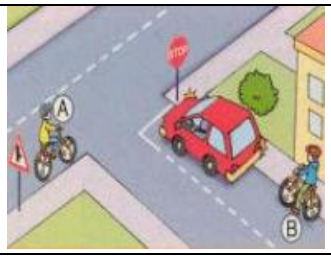	
4	Em Portugal, as crianças até 1,35m e menos de 12 anos de idade têm de viajar num sistema de retenção adequado ao seu tamanho e peso. **A – Verdadeiro** **B – Falso**	
5	Se estiveres a conduzir e, ao mesmo tempo, usares o telemóvel: **A – A tua atenção e concentração no ato de condução diminui.** **B – O risco de a condução se tornar arriscada para ti e para as outras pessoas com quem te cruzas diminui.**	

Número das questões	Questões	Penalizações parciais (10 pontos por cada resposta errada)
6	É proibido entrar, sair ou abrir as portas dos automóveis sem que estes estejam completamente imobilizados. **A – Verdadeiro** **B – Falso**	
7	O Miguel pretende brincar no jardim. Achas que se encontra no local mais seguro para atravessar? 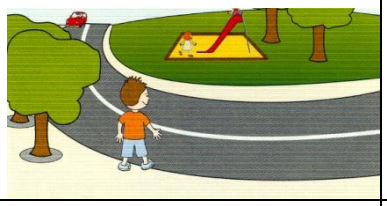 **A - Não, porque está a atravessar numa curva.** **B - Sim, porque assim está a uma menor distância do jardim.**	
8	Um ciclista mesmo que infrinja a lei, nunca pode ser multado por um agente da autoridade, pois só se pode multar condutores de veículos com motor. **A – Verdadeiro** **B – Falso**	
9	Que significa o sinal que se segue? **A – Pista destinada à circulação de ciclistas** **B – Proibida a circulação de ciclistas** **C – Obrigatório levar a bicicleta à mão**	
10	A probabilidade de lesão fatal ou morte imediata em caso de acidente de viação é duas vezes maior quando não se usa cinto de segurança. **A – Verdadeiro** **B – Falso**	
	Total de Penalizações	

Ficha de Avaliação da Prova de Maneabilidade

Comportamentos	N.º de faltas	Penalização por falta	TOTAIS PARCIAIS
Não respeitou o sinal de trânsito		5	
Não respeitou a regra de trânsito		5	
Não sinalizou a manobra		5	
Não passou em todas as zonas da prova		10	
		TOTAIS DE PENALIZAÇÃO	

Total de Penalizações no Questionário	
Total de Penalizações na Prova de Maneabilidade	
Somatório das Penalizações averbadas nas duas componentes do Projeto =	

Secretaria Regional de Educação
Direção Regional de Educação

Projeto de Enriquecimento e Complemento Curricular
Plano Regional de Educação Rodoviária (**PRER**) 2018/2019
Projeto I - **Taça Escolar de Educação Rodoviária** - 12ª Edição

Categoria A – **1º Ciclo do Ensino Básico – Fase Concelhia**

QUESTIONÁRIO (escrito)

4567

A PREENCHER PELO PARTICIPANTE (EM MAIÚSCULAS)

Estabelecimento de Ensino: _____

Nome do Aluno: _____

Ano de escolaridade: _____º Turma: _____ N.º _____

Data de nascimento: _____/_____/_____ Data de realização do questionário: 2019/__/__

ATENÇÃO: Para cada afirmação/pergunta, apenas existe uma opção de resposta correta. Faz uma circunferência (O) em torno dessa mesma resposta.

Número das questões	Questões	Penalizações parciais (10 pontos por cada resposta errada)
1	Os bebés, transportados em automóveis, estão mais seguros se forem ao colo de outra pessoa. **A – Verdadeiro** **B – Falso**	
2	Parece-te que o João e o Miguel estão a brincar num local seguro?  **A - Não. Estão muito perto da faixa de rodagem.** **B - Sim. Estão a brincar no passeio onde não existe trânsito.**	
3	Sempre que circulas de bicicleta e viras de direção à direita, se houver peões a atravessar a rua, deves parar, mesmo que não existam passadeiras para peões. **A – Verdadeiro** **B – Falso**	
4	A distância que deve separar-nos do veiculo da frente, deve ser suficiente para pararmos em segurança, se ele fizer uma travagem ou manobra brusca.  **A – Quanto mais depressa circularmos, maior tem de ser essa distância.** **B – Devemos circular sempre junto ao veículo da frente para termos uma melhor visibilidade do trânsito**.	
5	Não se deve entrar, sair ou abrir as portas dos automóveis sem que estes estejam completamente imobilizados. **A – Verdadeiro** **B – Falso**	

Número das questões	Questões	Penalizações parciais (10 pontos por cada resposta errada)
6	Que significa o sinal que se segue? **A – Obrigatório levar a bicicleta à mão.** **B – Proibida a circulação de ciclistas.** **C – Pista destinada à circulação de ciclistas.** 	
7	O Miguel pretende brincar no jardim. Achas que se encontra no local mais seguro para atravessar? **A - Não, porque está a atravessar numa curva.** **B - Sim, porque assim está a uma menor distância do jardim.** 	
8	Enquanto ciclistas, quando é que devemos ligar as luzes? **A – Para sermos vistos pelos condutores que vêm atrás de nós, temos que ter uma luz branca à frente e um refletor vermelho atrás.** **B – Só os automobilistas é que têm essa obrigação.**	
9	O uso de cinto de segurança nos bancos da frente e nos bancos traseiros é obrigatório por lei. A sua não utilização pode estar sujeita a punição legal. **A – Verdadeiro** **B - Falso**	
10	Se estiveres a pé, a utilização de telemóvel pode distrair-te do que se passa à tua volta (ex: não ouvires um carro a buzinar), levando à adoção de comportamentos imprudentes (ex: atravessar a passadeira sem as devidas precauções). **A – Verdadeiro** **B - Falso**	
	Total de Penalizações	

Ficha de Avaliação da Prova de Maneabilidade

Comportamentos	N.º de faltas	Penalização por falta	TOTAIS PARCIAIS
Não respeitou o sinal de trânsito		5	
Não respeitou a regra de trânsito		5	
Não sinalizou a manobra		5	
Não passou em todas as zonas da prova		10	
		TOTAIS DE PENALIZAÇÃO	

Total de Penalizações no Questionário	
Total de Penalizações na Prova de Maneabilidade	
Somatório das Penalizações averbadas nas duas componentes do Projeto =	

Secretaria Regional de Educação
Direção Regional de Educação

Projeto de Enriquecimento e Complemento Curricular
Plano Regional de Educação Rodoviária (PRER) 2018/2019
Projeto I - **Taça Escolar de Educação Rodoviária** - 12ª Edição

Categoria A – **1º Ciclo do Ensino Básico – Fase Concelhia**

QUESTIONÁRIO (escrito)

5678

A PREENCHER PELO PARTICIPANTE (EM MAIÚSCULAS)

Estabelecimento de Ensino: _____

Nome do Aluno: _____

Ano de escolaridade: _____º Turma: _____ N.º _____

Data de nascimento: _____/_____/_____ Data de realização do questionário: 2019/__/__

ATENÇÃO: Para cada afirmação/pergunta, apenas existe uma opção de resposta correta. Faz uma circunferência (O) em torno dessa mesma resposta.

Número das questões	Questões	Penalizações parciais (10 pontos por cada resposta errada)
1	Que significa a sinalização que o ciclista está a realizar? **A – Vai virar à esquerda.** **B – Vai abrandar.** **C – Vai virar à direita.**	
2	Se estiveres a conduzir e, ao mesmo tempo, usares o telemóvel: **A – A capacidade para veres e identificares sinais de trânsito é reduzida.** **B – A capacidade para avaliares a velocidade a que circulas é maior.** **C - O risco de acidente é 4 vezes menor.**	
3	Quando andas de bicicleta, a distância que deve separar-te do veículo da frente deve ser suficiente para parares se ele fizer uma travagem ou manobra brusca. **A – Verdadeiro** **B – Falso**	
4	Todos os sinais que se seguem são de cedência de passagem?  **A – Verdadeiro** **B – Falso**	
5	Dois ciclistas não podem circular a par. **A – Verdadeiro** **B - Falso**	

Número das questões	Questões	Penalizações parciais (10 pontos por cada resposta errada)
6	É aconselhado o uso do cinto de segurança, mas por lei não é obrigatório. **A – Verdadeiro** **B – Falso**	
7	O Manuel está a chamar o João. Para ir ter com ele, o que é que o João deve fazer? **A - Atravessar a partir do local onde se encontra.** **B - Andar um pouco mais e atravessar na passagem para peões.** 	
8	Todos os condutores que saiam de uma zona de abastecimento de combustível, de um prédio, de um parque de estacionamento ou de um caminho particular devem ceder a passagem aos veículos que estão a circular na via em que vão entrar. Portanto, os ciclistas, quando encontrarem veículos a sair destes locais, sabem que são os primeiros a avançar. **A – Verdadeiro** **B – Falso**	
9	Na sinalização luminosa, os sinais para os condutores são: **A – Tricolores: Vermelho, laranja e azul.** **B – Bicolores: Vermelho e verde.** **C – Tricolores: Vermelho, amarelo e verde.** **D – Bicolores: Vermelho e amarelo.**	
10	O que significa o sinal apresentado? **A – Obrigatório ceder a passagem** **B – Proibida a passagem de peões** 	
	Total de Penalizações	

Ficha de Avaliação da Prova de Maneabilidade

Comportamentos	N.º de faltas	Penalização por falta	TOTAIS PARCIAIS
Não respeitou o sinal de trânsito		5	
Não respeitou a regra de trânsito		5	
Não sinalizou a manobra		5	
Não passou em todas as zonas da prova		10	
		TOTAIS DE PENALIZAÇÃO	

Total de Penalizações no Questionário	
Total de Penalizações na Prova de Maneabilidade	
Somatório das Penalizações averbadas nas duas componentes do Projeto =	

Secretaria Regional de Educação
Direção Regional de Educação

Projeto de Enriquecimento e Complemento Curricular
Plano **R**egional de **E**ducação **R**odoviária (**PRER**) 2018/2019
Projeto I - **Taça Escolar de Educação Rodoviária** - 12ª Edição

Categoria A – **1º Ciclo do Ensino Básico – Fase Concelhia**

QUESTIONÁRIO (escrito)

6789

A PREENCHER PELO PARTICIPANTE (EM MAIÚSCULAS)

Estabelecimento de Ensino: _____

Nome do Aluno: _____

Ano de escolaridade: _____º Turma: _____ N.º _____

Data de nascimento: _____/_____/_____ Data de realização do questionário: 2019/__/__

ATENÇÃO: Para cada afirmação/pergunta, apenas existe uma opção de resposta correta. Faz uma circunferência (O) em torno dessa mesma resposta.

Número das questões	Questões	Penalizações parciais (10 pontos por cada resposta errada)
1	No fim de uma viagem, os passageiros de automóveis devem libertar-se imediatamente do cinto de segurança, mesmo quando os veículos ainda estão em andamento. **A – Verdadeiro** **B – Falso**	
2	O ciclista A deve: **A – Passar primeiro que os outros veículos.** **B – Deixar passar primeiro o automóvel e avançar antes do ciclista B.** 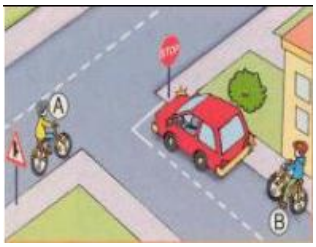	
3	O efeito do álcool na condução depende de vários fatores ligados às características e comportamentos de quem conduz. Uma pequena quantidade de álcool pode ser suficiente para que a capacidade para conduzir seja alterada. **A – Verdadeiro** **B – Falso**	
4	Para entrares e saíres do automóvel deves: **A – Mesmo com o automóvel em marcha lenta posso sair ou entrar.** **B – Entrar e sair sempre pelo lado do passeio.** **C – Colocar-me à retaguarda de um veículo que esteja a fazer uma manobra.** **D – Nenhuma está correta.**	
5	Se tiveres 120 cm já não necessitas de usar "cadeirinha". **A- Verdadeiro** **B – Falso**	

Número das questões	Questões	Penalizações parciais (10 pontos por cada resposta errada)
6	A probabilidade de lesão fatal ou morte imediata em caso de acidente de viação é duas vezes maior quando não se usa cinto de segurança. **A – Verdadeiro** **B – Falso**	
7	Dois ciclistas podem circular a par. **A – Verdadeiro** **B – Falso**	
8	Se circulares de bicicleta à noite, para veres e seres visto pelos outros utentes, deves ligar a luz da frente que é vermelha e a de trás que é branca. **A – Verdadeiro** **B – Falso**	
9	O ciclista deve: **A – Avançar antes do automóvel porque este se encontra a sair de uma garagem.** **B – Avançar depois do automóvel porque se trata de um veículo a motor.**	
10	O Miguel pretende brincar no jardim. Achas que se encontra no local mais seguro para atravessar?  **A - Não, porque não deve passar a estrada numa curva.** **B - Sim, porque assim está a uma menor distância do jardim.**	
	Total de Penalizações	

Ficha de Avaliação da Prova de Maneabilidade

Comportamentos	N.º de faltas	Penalização por falta	TOTAIS PARCIAIS
Não respeitou o sinal de trânsito		5	
Não respeitou a regra de trânsito		5	
Não sinalizou a manobra		5	
Não passou em todas as zonas da prova		10	
		TOTAIS DE PENALIZAÇÃO	

Total de Penalizações no Questionário	
Total de Penalizações na Prova de Maneabilidade	
Somatório das Penalizações averbadas nas duas componentes do Projeto =	

Secretaria Regional de Educação
Direção Regional de Educação

Projeto de Enriquecimento e Complemento Curricular
Plano Regional de Educação Rodoviária (**PRER**) 2018/2019
Projeto I - **Taça Escolar de Educação Rodoviária** - 12ª Edição

Categoria A – **1º Ciclo do Ensino Básico – Fase Concelhia**

QUESTIONÁRIO (escrito)

7890

A PREENCHER PELO PARTICIPANTE (EM MAIÚSCULAS)

Estabelecimento de Ensino: _____

Nome do Aluno: _____

Ano de escolaridade: _____º Turma: _____ N.º _____

Data de nascimento: _____/_____/_____ Data de realização do questionário: 2019/__/__

ATENÇÃO: Para cada afirmação/pergunta, apenas existe uma opção de resposta correta. Faz uma circunferência (O) em torno dessa mesma resposta.

Número das questões	Questões	Penalizações parciais (10 pontos por cada resposta errada)
1	Que significa a sinalização que o ciclista está a realizar? **A) Vai virar à direita;** **B) Vai virar à direita e parar;** **C) Vai abrandar;** **D) Vai virar à esquerda.** 	
2	O que significa o seguinte sinal de trânsito? **A) Existe uma passagem para peões.** **B) Existe uma escola nas proximidades.** **C) Proibido a passagem de peões.** 	
3	O ciclista **A** está a comportar-se corretamente, ao circular numa via de dois sentidos? **A - Não, porque como vai virar à esquerda deveria estar o mais próximo possível da berma.** **B - Sim, porque ao mudar de direção à esquerda deve-se colocar junto ao eixo da faixa de rodagem.**  	
4	O cinto de segurança protege os condutores e passageiros, prevenindo possíveis consequências mais graves em caso de acidente (ex: lesões permanentes; lesões fatais; morte imediata no local). **A- Verdadeiro** **B – Falso**	
5	Dois ciclistas não podem circular a par. **A – Verdadeiro** **B - Falso**	

Número das questões	Questões	Penalizações parciais (10 pontos por cada resposta errada)
6	A que grupos pertencem os sinais de trânsito apresentados? **A) Cedência e proibição;** **B) Obrigação e perigo;** **D) Informação e obrigação.**	
7	A pressa é inimiga da segurança. Qual das seguintes frases é verdadeira? **A) Se estiveres atrasado para ir para a escola, corre e não te preocupes em atravessar nas passadeiras.** **B) A sinalização vertical para os peões não é importante, por isso não percas tempo em olhá-la.** **C) Mesmo que estejas com pressa para atravessar a rua, procura sempre uma passadeira.**	
8	O uso de telemóvel durante a condução pode ser punido com multa e com a proibição de condução por um determinado período de tempo. **A – Verdadeiro** **B – Falso**	
9	Se circulares de bicicleta à noite, para veres e seres visto pelos outros utentes, deves ligar a luz da frente que é vermelha e a de trás que é branca. **A – Verdadeiro** **B – Falso**	
10	Se tiveres 120 cm já não necessitas de usar "cadeirinha". **A- Verdadeiro** **B – Falso**	
	Total de Penalizações	

Ficha de Avaliação da Prova de Maneabilidade

Comportamentos	N.º de faltas	Penalização por falta	TOTAIS PARCIAIS
Não respeitou o sinal de trânsito		5	
Não respeitou a regra de trânsito		5	
Não sinalizou a manobra		5	
Não passou em todas as zonas da prova		10	
		TOTAIS DE PENALIZAÇÃO	

Total de Penalizações no Questionário	
Total de Penalizações na Prova de Maneabilidade	
Somatório das Penalizações averbadas nas duas componentes do Projeto =	

Secretaria Regional de Educação
Direção Regional de Educação

Projeto de Enriquecimento e Complemento Curricular
Plano Regional de Educação Rodoviária (**PRER**) 2018/2019
Projeto I - **Taça Escolar de Educação Rodoviária** - 12ª Edição

Categoria A – **1º Ciclo do Ensino Básico – Fase Concelhia**

QUESTIONÁRIO (escrito)

8901

A PREENCHER PELO PARTICIPANTE (EM MAIÚSCULAS)

Estabelecimento de Ensino: _____

Nome do Aluno: _____

Ano de escolaridade: _____º Turma: _____ N.º _____

Data de nascimento: _____/_____/_____ Data de realização do questionário: 2019/__/__

ATENÇÃO: Para cada afirmação/pergunta, apenas existe uma opção de resposta correta. Faz uma circunferência (O) em torno dessa mesma resposta.

Número das questões	Questões	Penalizações parciais (10 pontos por cada resposta errada)
1	O gesto seguinte apresentado pelo ciclista significa: **A – Vou virar à direita.** **B – Vou virar à esquerda.** 	
2	A ciclista **A** deve: **A) Parar e avançar depois dos outros condutores;** **B) Parar e avançar antes do ciclista B, mas depois do automóvel.** 	
3	Se estiveres a pé, a utilização de telemóvel pode distrair-te do que se passa à tua volta (ex: não ouvires um carro a buzinar), levando à adoção de comportamentos imprudentes (ex: atravessar a passadeira sem as devidas precauções). **A- Verdadeiro** **B – Falso**	
4	Enquanto ciclistas, quando é que devemos ligar as luzes? **A – Para sermos vistos pelos condutores que vêm atrás de nós, temos que ter uma luz branca à frente e um refletor vermelho atrás.** **B – Só os automobilistas é que têm essa obrigação.**	
5	Quando tem sono durante a viagem, a Miriam desaperta o cinto de segurança e sai da cadeira, para se poder deitar no banco do automóvel e dormir mais confortável. **A – Correto** **B - Incorreto**	

Número das questões	Questões	Penalizações parciais (10 pontos por cada resposta errada)
6	O que significa o sinal apresentado? **A) Obrigatório ceder a passagem.** **B) Proibida a passagem a peões.** 	
7	Quando um condutor de automóvel ultrapassa um autocarro parado. **A) Não existe nenhum perigo porque os peões veem bem os condutores.** **B) Tem de estar ainda mais atento, porque não vê se há passageiros a atravessar a rua pela sua frente.** **C) Desde que ultrapasse pelo lado esquerdo não põe ninguém em perigo.**	
8	Se tiveres 120 cm já não necessitas de usar "cadeirinha". **A- Verdadeiro B – Falso**	
9	Quando o piso está molhado ou escorregadio, a distância que um veículo percorre até parar é maior do que se o piso estiver seco. **A) Verdadeiro B) Falso**	
10	A distância que deve separar-nos do veiculo da frente, deve ser suficiente para pararmos em segurança, se ele fizer uma travagem ou manobra brusca. **A – Quanto mais depressa circularmos, maior tem de ser essa distância.** **B – Devemos circular sempre junto ao veículo da frente para termos uma melhor visibilidade do trânsito**. 	
	Total de Penalizações	

Ficha de Avaliação da Prova de Maneabilidade

Comportamentos	N.º de faltas	Penalização por falta	TOTAIS PARCIAIS
Não respeitou o sinal de trânsito		5	
Não respeitou a regra de trânsito		5	
Não sinalizou a manobra		5	
Não passou em todas as zonas da prova		10	
		TOTAIS DE PENALIZAÇÃO	

Total de Penalizações no Questionário	
Total de Penalizações na Prova de Maneabilidade	
Somatório das Penalizações averbadas nas duas componentes do Projeto =	

Secretaria Regional de Educação
Direção Regional de Educação

Projeto de Enriquecimento e Complemento Curricular
Plano Regional de Educação Rodoviária (**PRER**) 2018/2019
Projeto I - **Taça Escolar de Educação Rodoviária** - 12ª Edição

Categoria A – **1º Ciclo do Ensino Básico – Fase Concelhia**

QUESTIONÁRIO (escrito)

9012

A PREENCHER PELO PARTICIPANTE (EM MAIÚSCULAS)

Estabelecimento de Ensino: _____

Nome do Aluno: _____

Ano de escolaridade: _____º Turma: _____ N.º _____

Data de nascimento: _____/_____/_____ Data de realização do questionário: 2019/__/__

ATENÇÃO: Para cada afirmação/pergunta, apenas existe uma opção de resposta correta. Faz uma circunferência (O) em torno dessa mesma resposta.

Número das questões	Questões	Penalizações parciais (10 pontos por cada resposta errada)
1	O Tiago, que tem 8 anos, vai todos os dias de bicicleta para a escola. Para não se expor ao perigo dos veículos a motor, fá-lo sobre os passeios. Como classificas a opção do Tiago? **A) Correta** **B) Incorreta**	
2	Qual dos seguintes sinais indica sentido proibido? **A)** **B)**	
3	Nos velocípedes, as crianças só podem viajar como passageiros, se se deslocarem em cadeiras próprias e com capacete devidamente homologado. **A – Verdadeiro** **B - Falso**	
4	Quando o piso está molhado ou escorregadio, a distância que um veículo percorre até parar é maior do que se o piso estiver seco. **A) Verdadeiro** **B) Falso**	
5	A taxa de alcoolemia é a quantidade de álcool que existe no sangue de uma pessoa num determinado momento. **A) Verdadeiro** **B) Falso**	

Número das questões	Questões	Penalizações parciais (10 pontos por cada resposta errada)
6	Se estiveres a conduzir e, ao mesmo tempo, usares o telemóvel: **A – A tua atenção e concentração no ato de condução aumenta.** **B – O risco de a condução se tornar arriscada para ti e para as outras pessoas com quem te cruzas aumenta.**	
7	Quando te deslocas a pé num túnel ou à noite, deves vestir roupas de cor clara para te tornares mais visível. **A) Verdadeiro** **B) Falso**	
8	O que significa o sinal apresentado? **A) Obrigatório ceder a passagem.** **B) Proibida a passagem a peões.** 	
9	Dois ciclistas podem circular a par. **A – Verdadeiro** **B - Falso**	
10	O ciclista **(A)** está a comportar-se corretamente, ao circular numa via de dois sentidos? **A - Não, porque como vai virar à esquerda deveria estar o mais próximo possível da berma.** **B - Sim, porque ao mudar de direção à esquerda deve-se colocar junto ao eixo da faixa de rodagem.** 	
	Total de Penalizações	

Ficha de Avaliação da Prova de Maneabilidade

Comportamentos	N.º de faltas	Penalização por falta	TOTAIS PARCIAIS
Não respeitou o sinal de trânsito		5	
Não respeitou a regra de trânsito		5	
Não sinalizou a manobra		5	
Não passou em todas as zonas da prova		10	
		TOTAIS DE PENALIZAÇÃO	

Total de Penalizações no Questionário	
Total de Penalizações na Prova de Maneabilidade	
Somatório das Penalizações averbadas nas duas componentes do Projeto =	

Secretaria Regional de Educação
Direção Regional de Educação

Projeto de Enriquecimento e Complemento Curricular
Plano Regional de Educação Rodoviária (**PRER**) 2018/2019
Projeto I - **Taça Escolar de Educação Rodoviária** - 12ª Edição

Categoria A – **1º Ciclo do Ensino Básico – Fase Concelhia**

QUESTIONÁRIO (escrito)

1123

A PREENCHER PELO PARTICIPANTE (EM MAIÚSCULAS)

Estabelecimento de Ensino: _____

Nome do Aluno: _____

Ano de escolaridade: _____º Turma: _____ N.º _____

Data de nascimento: _____/_____/_____ Data de realização do questionário: 2019/__/__

ATENÇÃO: Para cada afirmação/pergunta, apenas existe uma opção de resposta correta. Faz uma circunferência (O) em torno dessa mesma resposta.

Número das questões	Questões	Penalizações parciais (10 pontos por cada resposta errada)
1	Entrar ou sair dos veículos sem que estes estejam completamente imobilizados é um comportamento aconselhado, já que se torna mais breve, perturbando menos a circulação rodoviária. **A) Verdadeiro** **B) Falso**	
2	Quando um condutor de automóvel ultrapassa um autocarro parado… **A) Não existe nenhum perigo porque os peões veem bem os condutores.** **B) Tem de estar ainda mais atento, porque não vê se há passageiros a atravessar a rua pela sua frente.** **C) Desde que ultrapasse pelo lado esquerdo não põe ninguém em perigo.**	
3	Como é que esta menina se deve comportar? **A) Avançar, se não houver veículos a aproximar-se.** **B) Parar sempre, mesmo que não se aproximem veículos.**	
4	Para conduzir um veículo a motor na via pública basta saber fazê-lo, não sendo necessário estar legalmente habilitado para o efeito. **A) Verdadeiro** **B) Falso**	
5	O uso de cinto de segurança nos bancos da frente e nos bancos traseiros é obrigatório por lei. A sua não utilização pode estar sujeita a punição legal. **A) Verdadeiro** **B) Falso**	

Número das questões	Questões	Penalizações parciais (10 pontos por cada resposta errada)
6	A que grupos pertencem os sinais de trânsito apresentados? **A) Obrigação e perigo;** **B) Cedência e proibição;** **D) Informação e obrigação.** 	
7	A ciclista **A** deve: **A) Parar e avançar depois dos outros condutores;** **B) Parar e avançar antes do ciclista B, mas depois do automóvel.** 	
8	Onde devem circular os velocípedes? **A) Faixa de rodagem** **B) Nos passeios** **C) Unicamente nas bermas**	
9	A taxa de alcoolemia depende de vários fatores: do tipo e da quantidade de bebida alcoólica ingerida; da idade, do sexo e do peso do consumidor; da altura em que o consumo ocorreu: em jejum, à refeição ou fora das refeições; do tempo que passou desde o último consumo; do estado de saúde do consumidor e do consumo de medicação. **A) Verdadeiro** **B) Falso**	
10	Quando o piso está molhado ou escorregadio, a distância que um veículo percorre até parar é maior do que se o piso estiver seco. **A) Verdadeiro** **B) Falso**	
	Total de Penalizações	

Ficha de Avaliação da Prova de Maneabilidade

Comportamentos	N.º de faltas	Penalização por falta	TOTAIS PARCIAIS
Não respeitou o sinal de trânsito		5	
Não respeitou a regra de trânsito		5	
Não sinalizou a manobra		5	
Não passou em todas as zonas da prova		10	
		TOTAIS DE PENALIZAÇÃO	

Total de Penalizações no Questionário	
Total de Penalizações na Prova de Maneabilidade	
Somatório das Penalizações averbadas nas duas componentes do Projeto =	

Secretaria Regional de Educação
Direção Regional de Educação

Projeto de Enriquecimento e Complemento Curricular
Plano Regional de Educação Rodoviária (**PRER**) 2018/2019
Projeto I - **Taça Escolar de Educação Rodoviária** - 12ª Edição

Categoria A – **1º Ciclo do Ensino Básico – Fase Concelhia**

QUESTIONÁRIO (escrito)

2234

A PREENCHER PELO PARTICIPANTE (EM MAIÚSCULAS)

Estabelecimento de Ensino: _____

Nome do Aluno: _____

Ano de escolaridade: _____º Turma: _____ N.º _____

Data de nascimento: _____/_____/_____ Data de realização do questionário: 2019/__/__

ATENÇÃO: Para cada afirmação/pergunta, apenas existe uma opção de resposta correta. Faz uma circunferência (O) em torno dessa mesma resposta.

Número das questões	Questões	Penalizações parciais (10 pontos por cada resposta errada)
1	Se estiveres a conduzir e, ao mesmo tempo, usares o telemóvel: **A – A capacidade para veres e identificares sinais de trânsito é reduzida.** **B – A capacidade para avaliares a velocidade a que circulas é maior.**	
2	Quando somos condutores e encontramos este sinal na nossa faixa de rodagem, devemos: **A – Abrandar e parar se necessário.** **B – Parar sempre.**	
3	O Tiago, que tem 8 anos, vai todos os dias de bicicleta para a escola. Para não se expor ao perigo dos veículos a motor, fá-lo sobre os passeios. Como classificas a opção do Tiago? **A) Correta** **B) Incorreta**	
4	A taxa de alcoolemia é a quantidade de álcool que existe no sangue de uma pessoa num determinado momento. **A – Verdadeiro** **B - Falso**	
5	O que é que estes meninos devem fazer para atravessar a faixa de rodagem? **A –** Atravessar pela frente do autocarro. **B –** Atravessar depois do autocarro partir.	

Número das questões	Questões	Penalizações parciais (10 pontos por cada resposta errada)
6	Quando o piso está molhado ou escorregadio, a distância que um veículo percorre até parar é maior do que se o piso estiver seco. **A - Verdadeiro B - Falso**	
7	Sempre que viajo de automóvel devo colocar o cinto de segurança, exceto quando a viagem é só até à rua ao lado. **A – Verdadeiro B - Falso**	
8	A ciclista A deve: **A) Parar e avançar depois dos outros condutores;** **B) Parar e avançar antes do ciclista B, mas depois do automóvel.**	
9	Quando andas de bicicleta, trotineta ou patins, mesmo que seja só por divertimento, numa rua sem trânsito, deves sempre usar o teu capacete. **A – Verdadeiro B - Falso**	
10	Na sinalização luminosa, os sinais para os condutores são: **A – Tricolores: Vermelho, amarelo e verde.** **B – Bicolores: Vermelho e verde.** **C – Tricolores: Vermelho, laranja e verde.**	
	Total de Penalizações	

Ficha de Avaliação da Prova de Maneabilidade

Comportamentos	N.º de faltas	Penalização por falta	TOTAIS PARCIAIS
Não respeitou o sinal de trânsito		5	
Não respeitou a regra de trânsito		5	
Não sinalizou a manobra		5	
Não passou em todas as zonas da prova		10	
		TOTAIS DE PENALIZAÇÃO	

Total de Penalizações no Questionário	
Total de Penalizações na Prova de Maneabilidade	
Somatório das Penalizações averbadas nas duas componentes do Projeto =	

Secretaria Regional de Educação
Direção Regional de Educação

Projeto de Enriquecimento e Complemento Curricular
Plano Regional de Educação Rodoviária (PRER) 2018/2019
Projeto I - **Taça Escolar de Educação Rodoviária** - 12ª Edição

Categoria A – **1º Ciclo do Ensino Básico – Fase Concelhia**

QUESTIONÁRIO (escrito)

3345

A PREENCHER PELO PARTICIPANTE (EM MAIÚSCULAS)

Estabelecimento de Ensino: _____

Nome do Aluno: _____

Ano de escolaridade: _____º Turma: _____ N.º _____

Data de nascimento: _____/_____/_____ Data de realização do questionário: 2019/__/__

ATENÇÃO: Para cada afirmação/pergunta, apenas existe uma opção de resposta correta. Faz uma circunferência (O) em torno dessa mesma resposta.

Número das questões	Questões	Penalizações parciais (10 pontos por cada resposta errada)
1	Os sinais de informação têm forma: **A – Quadrangular.** **B – Triangular.** **C – Circular.**	
2	O Tiago, que tem 8 anos, vai todos os dias de bicicleta para a escola. Para não se expor ao perigo dos veículos a motor, fá-lo sobre os passeios. Como classificas a opção do Tiago? **A) Correta** **B) Incorreta**	
3	Como é que esta menina se deve comportar? **A) Avançar, se não houver veículos a aproximar-se.** **B) Parar sempre, mesmo que não se aproximem veículos**	
4	Entrar ou sair dos veículos sem que estes estejam completamente imobilizados é um comportamento aconselhado, já que se torna mais breve, perturbando menos a circulação rodoviária. **A) Verdadeiro** **B) Falso**	
5	O que significa o sinal apresentado? **A) Obrigatório ceder a passagem.** **B) Proibida a passagem a peões.**	

Número das questões	Questões	Penalizações parciais (10 pontos por cada resposta errada)
6	Para facilitar a passagem no passeio, é melhor: **A – caminhar lado a lado.** **B – caminhar em fila indiana.**	
7	Que significa a sinalização que o ciclista está a realizar? **A) Vai virar à direita;** **B) Vai virar à esquerda.** 	
8	Como devem os peões atravessar a estrada onde não existem passagens a eles destinadas: **A – Na perpendicular, sem correr e com atenção à circulação de veículos.** **B – Como melhor entenderem.** **C – A correr pela frente dos automóveis, para serem vistos.**	
9	As cadeiras elevatórias de segurança apenas são obrigatórias até aos 5 anos. **A – Verdadeiro B - Falso**	
10	A ciclista A deve: **A) Parar e avançar depois dos outros condutores;** **B) Parar e avançar antes do ciclista B, mas depois do automóvel.** 	
	Total de Penalizações	

Ficha de Avaliação da Prova de Maneabilidade

Comportamentos	N.º de faltas	Penalização por falta	TOTAIS PARCIAIS
Não respeitou o sinal de trânsito		5	
Não respeitou a regra de trânsito		5	
Não sinalizou a manobra		5	
Não passou em todas as zonas da prova		10	
		TOTAIS DE PENALIZAÇÃO	

Total de Penalizações no Questionário	
Total de Penalizações na Prova de Maneabilidade	
Somatório das Penalizações averbadas nas duas componentes do Projeto =	

Secretaria Regional de Educação
Direção Regional de Educação

Projeto de Enriquecimento e Complemento Curricular
Plano Regional de Educação Rodoviária (**PRER**) 2018/2019
Projeto I - **Taça Escolar de Educação Rodoviária** - 12ª Edição

Categoria A – **1º Ciclo do Ensino Básico – Fase Concelhia**

QUESTIONÁRIO (escrito)

4456

A PREENCHER PELO PARTICIPANTE (EM MAIÚSCULAS)

Estabelecimento de Ensino: _____

Nome do Aluno: _____

Ano de escolaridade: _____º Turma: _____ N.º _____

Data de nascimento: _____/_____/_____ Data de realização do questionário: 2019/__/__

ATENÇÃO: Para cada afirmação/pergunta, apenas existe uma opção de resposta correta. Faz uma circunferência (O) em torno dessa mesma resposta.

Número das questões	Questões	Penalizações parciais (10 pontos por cada resposta errada)
1	Que significa a sinalização que o ciclista está a realizar? **A) Vai virar à direita;** **B) Vai virar à esquerda.** 	
2	Quando sais do autocarro deves deixá-lo afastar, para depois atravessares com maior segurança a rua. **A – Verdadeiro** **B – Falso**	
3	Se estiveres a conduzir e, ao mesmo tempo, usares o telemóvel: **A – A capacidade para veres e identificares sinais de trânsito é aumentada.** **B – A capacidade para avaliares a velocidade a que circulas é maior.** **C – O risco de acidente é 4 vezes maior.**	
4	Para conduzir um veículo a motor na via pública basta saber fazê-lo, não sendo necessário estar legalmente habilitado para o efeito. **A) Verdadeiro** **B) Falso**	
5	A que grupos pertencem os sinais de trânsito apresentados? **A) Perigo e informação;** **B) Obrigação e Perigo;** **C) Cedência e proibição;** **D) Informação e obrigação.** 	

Número das questões	Questões	Penalizações parciais (10 pontos por cada resposta errada)
6	Quando andas de bicicleta e um peão quer atravessar na passadeira, não tens o dever de parar, pois conduzes um veículo sem motor. **A – Verdadeiro** **B – Falso**	
7	O ciclista A deve: 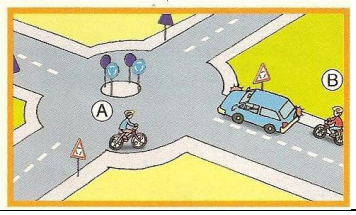 **A) Passar antes dos outros dois veículos.** **B) Passar depois dos outros dois veículos.** **C) Passar depois do automóvel e antes do ciclista B.**	
8	 Dos sinais apresentados algum pertence ao grupo dos sinais de perigo? **A – Sim** **B – Não**	
9	Em caso de um acidente rodoviário com um motociclo, devemos de imediato socorrer a vítima e retirar-lhe o capacete o mais rápido possível. **A – Verdadeiro** **B – Falso**	
10	Quem anda de bicicleta, até aos dez anos pode circular nos passeios. **A – Verdadeiro** **B – Falso**	
	Total de Penalizações	

Ficha de Avaliação da Prova de Maneabilidade

Comportamentos	N.º de faltas	Penalização por falta	TOTAIS PARCIAIS
Não respeitou o sinal de trânsito		5	
Não respeitou a regra de trânsito		5	
Não sinalizou a manobra		5	
Não passou em todas as zonas da prova		10	
		TOTAIS DE PENALIZAÇÃO	

Total de Penalizações no Questionário	
Total de Penalizações na Prova de Maneabilidade	
Somatório das Penalizações averbadas nas duas componentes do Projeto =	

Secretaria Regional de Educação
Direção Regional de Educação

Projeto de Enriquecimento e Complemento Curricular
Plano Regional de Educação Rodoviária (**PRER**) 2018/2019
Projeto I - **Taça Escolar de Educação Rodoviária** - 12ª Edição

Categoria A – **1º Ciclo do Ensino Básico – Fase Concelhia**

QUESTIONÁRIO (escrito)

5567

A PREENCHER PELO PARTICIPANTE (EM MAIÚSCULAS)

Estabelecimento de Ensino: _____

Nome do Aluno: _____

Ano de escolaridade: _____º Turma: _____ N.º _____

Data de nascimento: _____/_____/_____ Data de realização do questionário: 2019/__/__

ATENÇÃO: Para cada afirmação/pergunta, apenas existe uma opção de resposta correta. Faz uma circunferência (O) em torno dessa mesma resposta.

Número das questões	Questões	Penalizações parciais (10 pontos por cada resposta errada)
1	O ciclista comporta-se corretamente? **A) Sim, porque pode virar à esquerda.** **B) Não, porque naquele local não se pode virar à esquerda.** **C) Não, porque naquele local só se pode ir em frente.**	
2	Não se deve entrar, sair ou abrir as portas dos veículos sem que estes estejam completamente imobilizados. **A – Verdadeiro** **B – Falso**	
3	O efeito do álcool na condução depende de vários fatores ligados às características e comportamentos de quem conduz. Uma pequena quantidade de álcool pode ser suficiente para que a capacidade para conduzir seja alterada. **A – Verdadeiro** **B – Falso**	
4	Como ciclista posso transitar na via rápida desde que leve capacete. **A – Verdadeiro** **B – Falso**	
5	A distância que deve separar-nos do veiculo da frente, deve ser suficiente para pararmos em segurança, se ele fizer uma travagem ou manobra brusca.  **A – Quanto mais depressa circularmos, maior tem de ser essa distância.** **B – Devemos circular sempre junto ao veículo da frente para termos uma melhor visibilidade do trânsito**.	

Número das questões	Questões	Penalizações parciais (10 pontos por cada resposta errada)
6	O peão da imagem está a caminhar no sítio adequado? 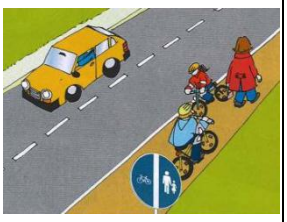 **A - Sim, pois encontra-se numa pista obrigatória para peões e velocípedes** **B - Não, porque está numa pista destinada apenas a ciclistas**	
7	Em Portugal, as crianças até 1,35m e menos de 12 anos de idade têm de viajar num sistema de retenção adequado ao seu tamanho e peso. **A – Verdadeiro** **B – Falso**	
8	 Dos sinais apresentados algum pertence ao grupo dos sinais de perigo? **A – Sim** **B – Não**	
9	Quando te deslocas a pé num túnel ou à noite, deves vestir roupas de cor clara para te tornares mais visível. **A) Verdadeiro** **B) Falso**	
10	Quem anda de bicicleta, até aos dez anos pode circular nos passeios. **A – Verdadeiro** **B – Falso**	
	Total de Penalizações	

Ficha de Avaliação da Prova de Maneabilidade

Comportamentos	N.º de faltas	Penalização por falta	TOTAIS PARCIAIS
Não respeitou o sinal de trânsito		5	
Não respeitou a regra de trânsito		5	
Não sinalizou a manobra		5	
Não passou em todas as zonas da prova		10	
		TOTAIS DE PENALIZAÇÃO	

Total de Penalizações no Questionário	
Total de Penalizações na Prova de Maneabilidade	
Somatório das Penalizações averbadas nas duas componentes do Projeto =	

Secretaria Regional de Educação
Direção Regional de Educação

Projeto de Enriquecimento e Complemento Curricular
Plano Regional de Educação Rodoviária (**PRER**) 2018/2019
Projeto I - **Taça Escolar de Educação Rodoviária** - 12ª Edição

Categoria A – **1º Ciclo do Ensino Básico – Fase Concelhia**

QUESTIONÁRIO (escrito)

6678

A PREENCHER PELO PARTICIPANTE (EM MAIÚSCULAS)

Estabelecimento de Ensino: _____

Nome do Aluno: _____

Ano de escolaridade: _____º Turma: _____ N.º _____

Data de nascimento: _____/_____/_____ Data de realização do questionário: 2019/__/__

ATENÇÃO: Para cada afirmação/pergunta, apenas existe uma opção de resposta correta. Faz uma circunferência (O) em torno dessa mesma resposta.

Número das questões	Questões	Penalizações parciais (10 pontos por cada resposta errada)
1	Qual dos seguintes sinais indica sentido proibido? **B)** **B)** **C)**	
2	Se estiveres a pé, a utilização de telemóvel pode distrair-te do que se passa à tua volta (ex: não ouvires um carro a buzinar), levando à adoção de comportamentos imprudentes (ex: atravessar a passadeira sem as devidas precauções). **A – Verdadeiro** **B - Falso**	
3	A ciclista A deve: **A) Parar e avançar depois dos outros condutores;** **B) Parar e avançar antes do ciclista B, mas depois do automóvel.**	
4	Na sinalização luminosa, os sinais para os condutores são: **A – Bicolores: Vermelho e verde.** **B – Tricolores: Vermelho, amarelo e verde.** **C – Tricolores: Vermelho, azul e verde.**	
5	Dois ciclistas podem circular a par. **A – Verdadeiro** **B - Falso**	

Número das questões	Questões	Penalizações parciais (10 pontos por cada resposta errada)
6	O que significa o seguinte sinal de trânsito? **A) Existe uma passagem para peões.** **B) Existe uma escola nas proximidades.** **C) Proibido a passagem de peões.**	
7	É proibido o transporte de pessoas em número que exceda a lotação do veículo ou de modo a comprometer a sua segurança ou a segurança da condução. **A – Verdadeiro** **B – Falso**	
8	Que significa a sinalização que o ciclista está a realizar? **A – Vai virar à esquerda.** **B – Vai abrandar.** **C – Vai virar à direita.**	
9	É aconselhado o uso do cinto de segurança, mas por lei não é obrigatório. **A – Verdadeiro** **B – Falso**	
10	A taxa de alcoolemia é a quantidade de álcool que existe no sangue de uma pessoa num determinado momento. **A – Verdadeiro** **B – Falso**	
	Total de Penalizações	

Ficha de Avaliação da Prova de Maneabilidade

Comportamentos	N.º de faltas	Penalização por falta	TOTAIS PARCIAIS
Não respeitou o sinal de trânsito		5	
Não respeitou a regra de trânsito		5	
Não sinalizou a manobra		5	
Não passou em todas as zonas da prova		10	
		TOTAIS DE PENALIZAÇÃO	

Total de Penalizações no Questionário	
Total de Penalizações na Prova de Maneabilidade	
Somatório das Penalizações averbadas nas duas componentes do Projeto =	